Név: ______________________________

Osztály: __________

Krokimatek

1. Töltsd ki a táblázatot! (ISMÉTELT ÖSSZEADÁS, ILLETVE KIVONÁS!


= 4


= 7


= 12

= 5

krokodil · zebra	
(krokodil + oroszlán) : 2	
víziló : zebra + 19	
10 + (zebra · víziló)	
(4 · oroszlán) + (krokodil · 7)	

2. Kösd össze a krokodil adatai között az összetartozókat!

Testhossz	70 év
Testtömeg	5–6 m
Élettartam	30–35 km/h
Tojásai száma	30–70 darab
Sebessége	1000 kg

3. Válaszolj egy-egy számmal az alábbi kérdésekre!

Hány lába van összesen négy krokodilnak? ______

Hány szeme van összesen 9 krokodilnak? ______

Hány farka van összesen három kicsi és 5 felnőtt krokodilnak? ______

4. Krokodilmama 63 tojást ásott el a homokban. Miután kikeltek a kicsik, a szájában viszi el őket a vízhez. Azonban egyszerre csak 7 fér el biztonságosan a szájában. Hányszor kell krokodilmamának fordulnia, amíg az összes kicsinyét a vízbe tudja szállítani? ISMÉTELT KIVONÁS!